Objetiva CONCURSOS

Concurso Público

ANTÔNIO PRADO/RS

Vigilante

Caderno de questões • Instruções Gerais

- Confira devidamente o material (CARTÃO DE RESPOSTAS e CADERNO DE QUESTÕES); se houver falha, solicite a substituição ao fiscal.
- Este caderno de questões está assim constituído:

DISCIPLINAS	Nº QUESTÕES
Português	20
Matemática	20
Conhecimentos Gerais e Específicos	20
Total de questões	**60**

- Após conferir seus dados no cartão de respostas (NOME, Nº da INSCRIÇÃO e CARGO), assine no local indicado.
- O CARTÃO DE RESPOSTAS é o único documento de correção, devendo ser preenchido com bastante atenção, à caneta esferográfica, azul ou preta, ponta grossa, marcando uma única alternativa em cada questão. Verifique no cartão de respostas as instruções para preenchimento. Não rasure, não amasse nem dobre o CARTÃO DE RESPOSTAS; evite usar borracha. É vedada a substituição do CARTÃO DE RESPOSTAS decorrente de erro cometido por candidato.
- Se o CARTÃO DE RESPOSTAS contiver maior número de alternativas e/ou de questões, preencha apenas as correspondentes à sua prova; as demais ficam em branco.
- Durante a realização da prova, não é permitida a comunicação entre candidatos nem a utilização de máquina calculadora e/ou similares, livros, anotações, réguas de cálculo, impressos ou qualquer outro material de consulta.
- O tempo de duração da prova objetiva será de **até 4 horas**, incluído o tempo para preenchimento do Cartão de Respostas. O candidato somente poderá levar consigo seu caderno de provas após uma hora contada do efetivo início das provas. Ao candidato que sair antes de uma hora contada do efetivo início das provas, será permitido copiar seu cartão de respostas, para conferência com o gabarito oficial.
- Em todas as questões de legislação desta prova (se houver), serão consideradas as emendas e/ou alterações da legislação com entrada em vigor até a data do início das inscrições.
- Na prova de Português será exigida a norma ortográfica atualmente em vigor.
- Ao final dos trabalhos, **DEVOLVA** ao Fiscal da sala o CARTÃO DE RESPOSTAS devidamente preenchido e assinado.
- Os três últimos candidatos de cada sala de prova deverão permanecer no recinto, a fim de acompanhar os fiscais até a coordenação para o lacre dos envelopes, quando, então, poderão retirar-se do local, simultaneamente, após concluído.

Direitos autorais reservados à Objetiva Concursos Ltda. Proibida a reprodução, ainda que parcial, sem autorização prévia.

Boa Prova!

Seriedade e ética: nós acreditamos nesses valores.

Nome do(a) Candidato(a)	Nº de inscrição

✂ Esta parte destacável serve para copiar as suas respostas, somente poderá ser destacada no ato da entrega do material na mesa do fiscal.

01	02	03	04	05	06	07	08	09	10
11	12	13	14	15	16	17	18	19	20
21	22	23	24	25	26	27	28	29	30
31	32	33	34	35	36	37	38	39	40
41	42	43	44	45	46	47	48	49	50
51	52	53	54	55	56	57	58	59	60

Objetiva CONCURSOS

Seriedade e ética: nós acreditamos nesses valores.

PORTUGUÊS

Arqueólogos encontram migalhas do pão mais antigo do mundo

Duas fogueiras encontradas em 2012 em um sítio arqueológico no nordeste da Jordânia contêm migalhas de um pão assado há 14 mil anos — 3,5 mil anos antes da _____ da agricultura. Essa é a primeira evidência de que o *Homo sapiens* já dominava a receita quando começou a domesticar e produzir grãos como o trigo em larga escala.

De acordo com o artigo científico, foram coletadas 642 migalhas entre 2012 e 2015, das quais 28 já foram analisadas em laboratório. Elas estão todas _____, como as casquinhas queimadas que caem no fundo da _____ quando o pão branco pula para fora.

"O pão sempre foi visto como um produto de sociedades sedentárias que praticavam a agricultura, mas as evidências na Jordânia são quase 3 mil anos mais antigas que o início do cultivo de plantas", afirmou ao *The Guardian* Tobias Richter, da Universidade de Copenhagen, um dos responsáveis pelo estudo. "O pão já era feito pelos caçadores-coletores antes deles começarem a plantar."

https://super.abril.com.br... - adaptado.

---

1) Considerando-se as regras ortográficas, assinalar a alternativa que preenche as lacunas do texto CORRETAMENTE:

a) invenssão - carbonisadas - torradeira
b) invenção - carbonisadas - torradeira
c) invensção - carbonizadas - toradeira
d) invenção - carbonizadas - torradeira
e) invenssão - carbonizadas - toradeira

---

2) De acordo com o texto, analisar os itens abaixo:

I. Foi encontrada, em 2012, somente uma fogueira na Jordânia contendo migalhas de um pão assado há muito tempo.
II. A descoberta provou que o ser humano já conhecia a receita de pão antes do cultivo de plantas.
III. As amostras de pão foram encontradas frescas e não cremadas.

Está(ão) CORRETO(S):

a) Somente o item I.
b) Somente o item II.
c) Somente o item III.
d) Somente os itens I e II.
e) Nenhum dos itens.

3) Considerando-se as palavras do texto e seu contexto, assinalar a alternativa que apresenta dois adjetivos:

a) Arqueológico - assado.
b) Primeira - dominava.
c) Trigo - larga.
d) Sedentárias - plantar.
e) Produto - migalhas.

---

4) A palavra "sedentárias" (último parágrafo) significa aquilo que:

a) Existiu há muito tempo.
b) Vive permanentemente mudando de lugar.
c) Tem poucas posses e recursos.
d) É muito bem organizado.
e) Tem moradia fixa.

---

5) A palavra "analisadas" (segundo parágrafo) poderia ser substituída, sem alteração de sentido, por:

a) Tratadas.
b) Recolhidas.
c) Examinadas.
d) Organizadas.
e) Coletadas.

---

6) Numerar a 2ª coluna de acordo com a 1ª conforme a classificação de palavras do texto quanto ao número de sílabas e, após, assinalar a alternativa que apresenta a sequência CORRETA:

(1) Monossílaba.
(2) Dissílaba.
(3) Trissílaba.
(4) Polissílaba.

( ) Fogueiras.
( ) Quando.
( ) Pão.

a) 3 - 2 - 1.
b) 4 - 3 - 2.
c) 4 - 2 - 1.
d) 2 - 3 - 2.
e) 3 - 3 - 2.

---

7) Assinalar a alternativa em que a flexão da palavra está INCORRETA:

a) O lápis - os lápis.
b) O farol - os farols.
c) O português - os portugueses.
d) O fóssil - os fósseis.
e) O cão - os cães.

8) Assinalar a alternativa que apresenta um substantivo que está no grau diminutivo:

a) Ninho.
b) Espinho.
c) Caderninho.
d) Vinho.
e) Adivinho.

---

9) Assinalar a alternativa em que as palavras são antônimas uma da outra:

a) Cauteloso - cuidadoso.
b) Encontrar - guardar.
c) Presunçoso - inteligente.
d) Belicoso - manso.
e) Obsoleto - arcaico.

---

10) Com relação à flexão dos adjetivos sublinhados, analisar os itens abaixo:

I. Lutamos por salários dignos.
II. Como escritora, ela é ruim.
III. Os copos são muito frágis.

Está(ão) CORRETO(S):

a) Somente o item II.
b) Somente os itens I e II.
c) Somente os itens I e III.
d) Somente os itens II e III.
e) Todos os itens.

---

11) "Capixaba" é um adjetivo pátrio referente ao estado de(o):

a) Espírito Santo.
b) Rio de Janeiro.
c) Rio Grande do Sul.
d) Paraná.
e) São Paulo.

---

12) Assinalar a alternativa que apresenta um verbo no futuro:

a) Eu iria se fosse você.
b) Espero que ela vá com ele.
c) Ele ia à casa de sua avó em todas as férias.
d) Ana fora uma ótima aluna.
e) Nós vamos ao teatro.

13) Quanto à flexão de gênero das palavras sublinhadas, marcar C para as sentenças Certas, E para as Erradas e, após, assinalar a alternativa que apresenta a sequência CORRETA:

( ) A profeta comunicou a mensagem.
( ) Meu tio tem uma leitoa na fazenda.
( ) Alice é uma ótima padrasta.

a) C - C - E.
b) E - C - C.
c) C - E - E.
d) E - C - E.
e) C - E - C.

---

14) Quanto à pontuação, analisar os itens abaixo:

I. Quero um suco de limão aliás, de morango.
II. Ele vai agora, e eu, amanhã.
III. Andou de cavalo, brincou com os primos e quer ir para casa.

Está(ão) CORRETO(S):

a) Somente o item III.
b) Somente os itens I e II.
c) Somente os itens I e III.
d) Somente os itens II e III.
e) Todos os itens.

---

15) Em relação aos modos dos verbos nas frases, numerar a 2ª coluna de acordo com a 1ª e, após, assinalar a alternativa que apresenta a sequência CORRETA:

(1) Indicativo.
(2) Subjuntivo.
(3) Imperativo.

( ) Tu tens muito tempo.
( ) Tenha dó!
( ) Somente se ele tiver dinheiro.

a) 3 - 2 - 1.
b) 1 - 3 - 2.
c) 3 - 1 - 2.
d) 2 - 3 - 1.
e) 2 - 1 - 3.

---

16) "Panapaná" é o coletivo de:

a) Atletas.
b) Abelhas.
c) Borboletas.
d) Insetos.
e) Estrelas.

---

17) Em relação à divisão silábica, assinalar a alternativa que apresenta uma palavra com divisão CORRETA:

a) Apa-re-lho.
b) E-xce-ção.
c) Na-sceu.
d) As-sas-si-no.
e) Brut-o.

18) Considerando-se a classificação das palavras quanto ao número de sílabas, analisar os itens abaixo:

I. “Entendimento” é uma palavra polissílaba.
II. “Rua” é uma palavra monossílaba.
III. “Mudanças” é uma palavra trissílaba.

Está(ão) CORRETO(S):

a) Somente o item I.
b) Somente o item II.
c) Somente os itens I e II.
d) Somente os itens I e III.
e) Todos os itens.

---

19) Considerando-se o uso ou não das vírgulas, marcar C para as sentenças Certas, E para as Erradas e, após, assinalar a alternativa que apresenta a sequência CORRETA:

( ) Quem pode me ajudar?
( ) Devido, às circunstâncias, vou para casa mais cedo.
( ) Vou levar, uma calça três meias duas camisas e um casaco.

a) C - C - E.
b) E - C - C.
c) C - E - E.
d) E - C - E.
e) C - E - C.

---

20) Assinalar a alternativa na qual o verbo sublinhado está no presente do subjuntivo:

a) Espero que ela <u>escreva</u> para mim.
b) Eu <u>escreverei</u> um livro.
c) <u>Escreve</u>, por favor, com mais atenção!
d) Carlos <u>escrevia</u> sobre suas aventuras.
e) Se você <u>escrever</u>, também escreverei.

MATEMÁTICA

21) Considerando-se que, em determinado pacote de balas, há 20 dezenas de balas, quantas unidades de balas, há ao todo nesse pacote?

a) 100
b) 200
c) 210
d) 300
e) 400

22) Sabendo-se que o ônibus X pode transportar 50 passageiros e que o ônibus Y pode transportar 42, ao todo, quantos passageiros o ônibus X pode transportar a mais do que o ônibus Y?

a) 10
b) 11
c) 8
d) 9
e) 12

---

23) Certo recipiente possui capacidade para 5L. Pode-se afirmar que essa capacidade é igual a:

a) 5.000mL
b) 500.000mL
c) 500mL
d) 50mL
e) 50.000mL

---

24) O preço de uma parafusadeira é de R$ 199,00. Se Jonathan conseguir um desconto de R$ 57,25, ao todo, quanto ele pagará pela parafusadeira?

a) R$ 139,25
b) R$ 140,00
c) R$ 141,75
d) R$ 142,50
e) R$ 143,25

25) Considerando-se a equivalência entre as unidades de medidas, numerar a 2ª coluna de acordo com a 1ª e, após, assinalar a alternativa que apresenta a sequência CORRETA:

(1) 3,2kg
(2) 3,2t
(3) 3,2g

( ) 3.200kg
( ) 3.200g
( ) 3.200mg

a) 1 - 2 - 3.
b) 3 - 1 - 2.
c) 2 - 3 - 1.
d) 2 - 1 - 3.
e) 3 - 2 - 1.

---

26) Supondo-se que o valor fixo do táxi é de R$ 5,70 adicionado R$ 3,15 por quilômetro percorrido. Com base nisso, quanto será o total a receber de troco, ao se percorrer 8 quilômetros e pagar a corrida com duas notas de 20 reais?

a) R$ 6,50
b) R$ 7,30
c) R$ 8,70
d) R$ 9,10
e) R$ 10,15

---

27) Assinalar a alternativa que apresenta o resultado da expressão numérica abaixo:

$$2+4+\{6\times[3+4\times(5+4)]\}-1$$

a) 216
b) 225
c) 239
d) 246
e) 252

28) O número de convidados de certo evento é dado pelo resultado da expressão abaixo. Sendo assim, ao todo, quantos convidados teve esse evento?

36 ÷ 3 + 6 x 8 - 2

a) 30
b) 48
c) 58
d) 142
e) 123

---

29) Analisando-se a figura abaixo, pode-se afirmar que o seu perímetro é igual a:

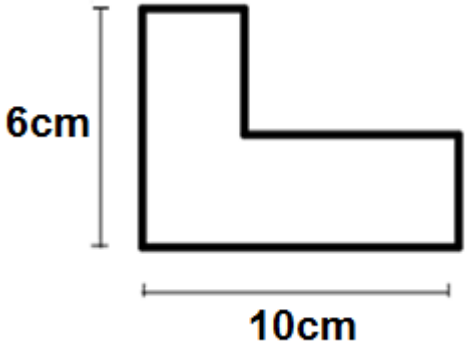

a) 26cm
b) 30cm
c) 32cm
d) 36cm
e) 35cm

30) Considerando-se as informações no quadro abaixo, assinalar a alternativa CORRETA:

Time	Vitórias	Empates	Derrotas	Saldo de gols
A	8	5	4	10
B	6	6	5	8
C	3	5	9	7
D	4	6	7	6

a) O time A obteve menor quantidade de vitórias do que o time C.
b) O time C teve maior quantidade de derrotas quando comparado com os outros times (A, B e D).
c) O time B obteve menor quantidade de saldo de gols quando comparado com os outros times (A, C e D).
d) A quantidade de vitórias do time A é igual à quantidade de derrotas do time D.
e) A quantidade de vitórias do time B é igual à quantidade de derrotas do time D.

31) A imagem abaixo representa um terreno e suas medidas. Assinalar a alternativa que apresenta a área total desse terreno:

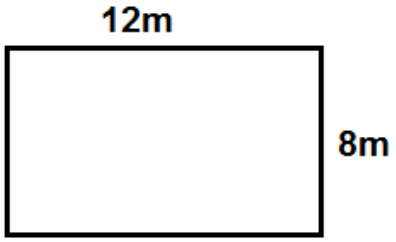

a) 20m²
b) 40m²
c) 66m²
d) 84m²
e) 96m²

32) Quanto aos números pares e ímpares, numerar a 2ª coluna de acordo com a 1ª e, após, assinalar a alternativa que apresenta a sequência CORRETA:

(1) Par.
(2) Ímpar.

( ) 872.
( ) 936.
( ) 645.

a) 1 - 1 - 2.
b) 1 - 2 - 2.
c) 2 - 1 - 1.
d) 2 - 2 - 1.
e) 2 - 1 - 2.

33) O sucessor do número natural 72 é o antecessor do número:

a) 71
b) 73
c) 74
d) 75
e) 70

34) Considerando-se que, em determinado cofre, há 4 dezenas de moedas de 25 centavos, 6 unidade de milhar de moedas de um real, 9 centenas de moedas de 50 centavos e 36 unidades de moedas de 5 centavos, qual o valor total que há no cofre?

a) R$ 4.680,10
b) R$ 1.860,60
c) R$ 6.461,80
d) R$ 8.104,06
e) R$ 3.254,85

35) Em certa sala de aula de 30 alunos, sabe-se que 1/2 dos alunos foram aprovados em matemática, 2/5 ficaram em recuperação e o restante não compareceu no dia da avaliação. Com base nessas informações, assinalar a alternativa que apresenta a fração dos alunos que não compareceram no dia da prova:

a) 2/4
b) 2/3
c) 1/5
d) 1/10
e) 3/9

36) Sabendo-se que o círculo abaixo foi dividido em partes iguais, qual a fração da figura que representa a parte hachurada?

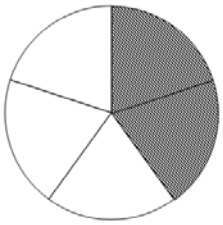

a) 3/2
b) 2/3
c) 3/5
d) 2/5
e) 5/2

37) O número que representa a distância, em quilômetros, entre duas cidades é composto por 6 unidades, 7 dezenas, 3 centenas e 2 unidades de milhar. Sendo assim, qual a distância total entre essas cidades?

a) 2.367km
b) 2.376km
c) 3.276km
d) 6.732km
e) 3.762km

38) Em certo dia, um termômetro estava marcando 25,7°C durante a manhã. Sabe-se que a tarde desse mesmo dia foi 2,4°C mais quente que a manhã. Sendo assim, qual temperatura estava marcando nesse termômetro durante a tarde?

a) 27,6°C
b) 28,1°C
c) 28,6°C
d) 29,1°C
e) 31,3°C

39) A sequência abaixo foi criada a partir de certo padrão lógico. Dessa forma, para que o padrão seja mantido, qual deve ser o próximo número da sequência?

0, 5, 2, 7, 4, 9, 6, 11,...

a) 10
b) 9
c) 8
d) 7
e) 6

40) Certo professor de matemática formou os números de zero a nove utilizando apenas palitos de fósforo, conforme a imagem abaixo. Considerando-se que o professor solicitou que os alunos representassem em números o horário de meio-dia e meia, ao todo, quantos palitos de fósforo cada aluno utilizou para fazer o horário, desconsiderando-se os dois pontos que separam as horas dos minutos:

a) 16
b) 18
c) 20
d) 22
e) 26

CONHECIMENTOS GERAIS E ESPECÍFICOS

41) A respeito da cidadania, um dos fundamentos da República Federativa do Brasil, marcar C para as afirmativas Certas, E para as Erradas e, após, assinalar a alternativa que apresenta a sequência CORRETA:

( ) Representa a tomada de consciência dos seus direitos, tendo como contrapartida a realização dos deveres pelos cidadãos.
( ) É um processo único, uma construção individualista, expressando a concretização dos direitos individuais.
( ) Implica no efetivo exercício dos direitos civis, políticos e socioeconômicos, bem como na participação e contribuição para o bem-estar da sociedade.

a) C - E - E.
b) E - C - C.
c) C - E - C.
d) E - C - E.
e) C - C - E.

---

42) No que tange à produção e ao consumo sustentáveis, marcar C para as afirmativas Certas, E para as Erradas e, após, assinalar a alternativa que apresenta a sequência CORRETA:

( ) Contribuem para a conservação dos recursos naturais e dos ecossistemas, dissociando o crescimento econômico da degradação ambiental.
( ) Estimulam a gestão sustentável e o uso eficiente dos recursos e insumos.
( ) Fomentam a geração de trabalhos decentes e o comércio justo.

a) C - E - E.
b) E - E - C.
c) C - E - C.
d) E - C - E.
e) C - C - C.

---

43) Em razão do desequilíbrio nos ecossistemas, causado pelo rompimento da barragem da Vale em Brumadinho (MG), em fevereiro de 2019, com perda de biodiversidade, houve um aumento do risco de surto de doenças como febre amarela e dengue naquela região. Isso se deve, sobretudo, ao fato desse desequilíbrio favorecer o desenvolvimento e a proliferação do vetor dessas enfermidades, qual seja:

a) Mosquitos.
b) Água.
c) Ratos.
d) Alimentos.
e) Contato físico.

44) "Produto que tem a vida útil de consumo de não mais que cinco minutos pode levar de 500 a mil anos para se decompor na natureza."

https://movimentolixocidadao.com.br/

O trecho acima refere-se a um dos grandes inimigos do meio ambiente, o qual, em 2018, foi e, em 2019, está sendo alvo de grandes campanhas mundiais para conscientização de que talvez seja o momento de deixar de usá-los, tendo sido proibido seu uso em diversas partes do mundo, inclusive em algumas cidades do Brasil. Tratam-se dos(das):

a) Guardanapos de papel.
b) Garrafas de vidro.
c) Canudinhos de plástico.
d) Combustíveis renováveis.
e) Latinhas de alumínio.

---

45) Ao chegar à prefeitura, um visitante pergunta ao primeiro servidor público que avista como pode chegar ao setor de protocolo. Com base nas noções de bom atendimento ao público, age CORRETAMENTE o servidor público que:

a) Ignora o visitante, já que a pergunta não tem nada a ver com a sua função.
b) É grosseiro com o visitante, pois ele lhe interrompeu sem necessidade.
c) Dá uma resposta qualquer, mesmo sem ter certeza.
d) Orienta o visitante para que ele tenha condições de localizar o setor desejado.
e) Diz que vai se informar, mas deixa o visitante esperando e sem retorno.

---

46) O atendimento telefônico envolve alguns princípios básicos. Com base nisso, assinalar a alternativa que NÃO apresenta um destes princípios:

a) Cortesia.
b) Tranquilidade.
c) Atenção.
d) Insolência.
e) Modulação da voz.

---

47) A higiene pessoal é fundamental no ambiente de trabalho, assim como nas relações sociais em geral. A respeito desse tema, é recomendável que o servidor público mantenha os seguintes hábitos, EXCETO:

a) Escovar os dentes após as refeições.
b) Lavar as mãos após usar o banheiro.
c) Manter as unhas cortadas e limpas.
d) Usar desodorante de aroma forte.
e) Conservar sua roupa ou uniforme asseados.

48) Em relação às rondas, marcar C para as afirmativas Certas, E para as Erradas e, após, assinalar a alternativa que apresenta a sequência CORRETA:

( ) A rondas internas são aquelas realizadas no interior das instalações, nos setores desativados por ocasião do encerramento expediente.
( ) Rondas periféricas são aquelas realizadas no espaço compreendido entre a área construída e as barreiras perimetrais.
( ) Ronda é uma diligência parra verificar irregularidades.

a) E - E - E.
b) C - C - C.
c) C - E - E.
d) E - C - E.
e) E - C - C.

---

49) No controle do acesso de pessoas, o Vigilante deve seguir determinados procedimentos que garantam a segurança das instalações e de todos que estejam envolvidos no sistema. Para tanto, há algumas ações indispensáveis, dentre elas:

I. Fazer a abordagem, preferencialmente próximo, procurando obter e confirmar todos os dados necessários ao efetivo controle do acesso.
II. Fazer a inspeção visual, procurando analisar e memorizar as características das pessoas, mostrando-se atento, pois tal comportamento garante a prevenção, uma vez que qualquer pessoa mal intencionada perde o interesse de agir quando percebe que foi observada antes de se aproximar.
III. Fazer a identificação pessoal, exigindo a apresentação de documento emitido por órgão oficial e que possua fotografia, como, por exemplo, RG, CNH etc.

Está(ão) CORRETO(S):

a) Nenhum dos itens.
b) Somente os itens I e II.
c) Somente os itens I e III.
d) Somente os itens II e III.
e) Todos os itens.

---

50) Sobre o controle de saída de materiais, o Vigilante deverá fazer o(a):

I. Inspeção visual e a identificação de quem está saindo com o material.
II. Conferência do material de acordo com o documento de autorização de saída.
III. Registro dos dados.

Está(ão) CORRETO(S):

a) Nenhum dos itens.
b) Somente os itens I e II.
c) Somente os itens I e III.
d) Somente os itens II e III.
e) Todos os itens.

51) Sobre como deve ser a atuação do Vigilante diante de situações de emergência, como tumulto e pânico, assinalar a alternativa INCORRETA:

a) Manter a calma.
b) Manter a ordem interna pelos recursos próprios, jamais acionar a polícia.
c) Controlar o público.
d) Evacuar o local de forma rápida e discreta, se necessário.
e) Agir de maneira imparcial, conscientizando-se que, em ocorrência em que há pessoas com os ânimos exaltados, a imparcialidade, o equilíbrio emocional e o diálogo são os melhores recursos.

---

52) Quanto à prevenção e ao combate a incêndio, assinalar a alternativa INCORRETA:

a) Combustível é toda substância capaz de queimar e alimentar a combustão.
b) Os incêndios de classe C são incêndios envolvendo combustíveis sólidos comuns, como papel, madeira, pano e borracha.
c) Agentes extintores são substâncias que, devido às suas características, quando lançadas sobre um fogo, o extinguem, por exemplo, a água.
d) A propagação do fogo por condução é a transmissão do calor que ocorre de uma fonte para um corpo, através de um material que seja um bom condutor de calor.
e) O método de extinção do fogo por resfriamento consiste na diminuição da temperatura do material combustível que está queimando, diminuindo, consequentemente, a liberação de gases ou vapores inflamáveis.

---

53) Quando há uma emergência como incêndio, salvamento, atendimento pré-hospitalar ou serviço técnico, deve-se acionar o número 193, esse número pertence a qual prestação de serviço?

a) Polícia Militar.
b) SAMU.
c) Polícia Rodoviária Federal.
d) Corpo de Bombeiros.
e) Polícia Civil.

---

54) Pode-se destacar como regra de segurança do trabalho:

I. Carregar tesouras de ponta reta nos bolsos da vestimenta.
II. Secar bem as mãos antes de conectar equipamentos elétricos à fonte de energia.
III. Guardar abertos os recipientes de líquidos inflamáveis.

Está(ão) CORRETO(S):

a) Somente o item I.
b) Somente o item II.
c) Somente o item III.
d) Somente os itens I e III.
e) Somente os itens II e III.

55) Segundo as normas de segurança do trabalho, para trabalhos em locais úmidos ou encharcados, deve-se:

a) Evitar o uso de calçados fechados.
b) Utilizar calçados abertos.
c) Utilizar calçados sem meias e palmilhas.
d) Evitar o uso de calçados impermeáveis.
e) Utilizar calçados impermeáveis.

---

56) Considerando-se as medidas que podem prevenir ou contribuir para acidentes, numerar a 2ª coluna de acordo com a 1ª e, após, assinalar a alternativa que apresenta a sequência CORRETA:

(1) Previne acidentes.
(2) Contribui para acidentes.

( ) Deixar peças e ferramentas espalhadas pelo chão.
( ) Manter gavetas e portas de armários fechados.
( ) Sinalizar quando o piso estiver molhado.

a) 1 - 1 - 2.
b) 2 - 1 - 2.
c) 2 - 2 - 1.
d) 1 - 2 - 1.
e) 2 - 1 - 1.

---

57) Quanto aos papéis que não são considerados recicláveis, marcar C para as afirmativas Certas, E para as Erradas e, após, assinalar a alternativa que apresenta a sequência CORRETA:

( ) Papéis sujos ou engordurados.
( ) Jornais e revistas.
( ) Papel higiênico e guardanapos usados.

a) C - C - E.
b) C - E - C.
c) E - E - C.
d) E - C - E.
e) C - C - C.

---

58) Sobre o descarte do lixo, marcar C para as afirmativas Certas, E para as Erradas e, após, assinalar a alternativa que apresenta a sequência CORRETA:

( ) Deve-se levar o lixo para longe dos olhos e jogá-lo na rua, no rio, nos terrenos baldios, nas encostas dos morros.
( ) A forma correta é embalar todo o lixo, sem separação, em sacos plásticos e colocá-los nos locais por onde passam os caminhões coletores de lixo.
( ) O ideal é separar restos de comida; embalar separadamente vidros, latas, papéis limpos e plásticos e encaminhá-los para que possam ser reciclados.

a) E - C - C.
b) C - C - E.
c) E - E - C.
d) C - E - E.
e) E - E - E.

59) Quanto à coleta seletiva, existe o padrão de cores estipulado para cada descarte de material ou resíduos. Com base nisso, é CORRETO afirmar que as lixeiras de cor vermelha são destinadas ao descarte de:

a) Madeira.
b) Plástico.
c) Resíduos perigosos.
d) Papel/papelão.
e) Material orgânico.

---

60) Acerca dos princípios para a boa higiene do ambiente de trabalho, marcar C para as afirmativas Certas, E para as Erradas e, após, assinalar a alternativa que apresenta a sequência CORRETA:

( ) Se forem utilizados sacos de lixo nas lixeiras, estas não precisam ser higienizadas quando da coleta dos resíduos, é suficiente a troca do saco plástico.
( ) Ao utilizar o banheiro, deve-se dar a descarga antes de sair, bem como verificar se o assento do vaso sanitário está limpo.
( ) Após realizar seu lanche, deve-se limpar as migalhas ou os restos de comida que tenham caído.

a) C - E - E.
b) E - C - C.
c) C - E - C.
d) E - C - E.
e) C - C - C.